GRADES 2-3

LABORATORIO DE VIENTO

CARRO CON VELA

TeacherGeek

Revisa el **Video del Laboratorio** escaneando el código QR o ingresando en **teachergeek.com/sailcar**

Nombre: _____

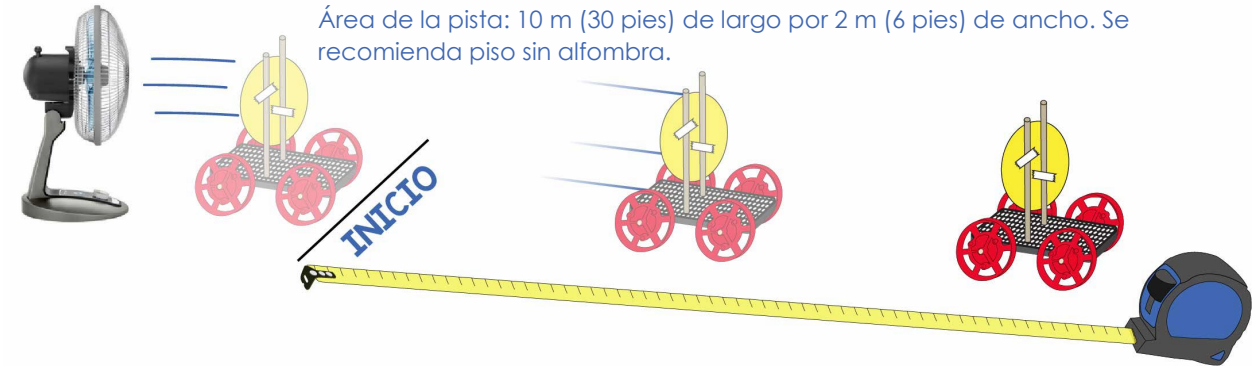

Área de la pista: 10 m (30 pies) de largo por 2 m (6 pies) de ancho. Se recomienda piso sin alfombra.

Circula las unidades en las que vas a medir.

Pulgadas (in)	**Pies** (ft)	**Centímetros** (cm)	**Metros** (m)

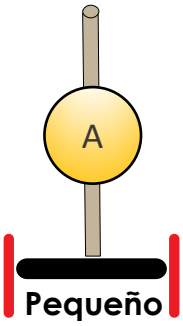

Predice: ¿Qué tan lejos *crees* que llegará? _____

Prueba: ¿Qué tan lejos llegó? _____

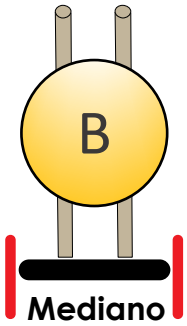

Predice: ¿Qué tan lejos *crees* que llegará? _____

Prueba: ¿Qué tan lejos llegó? _____

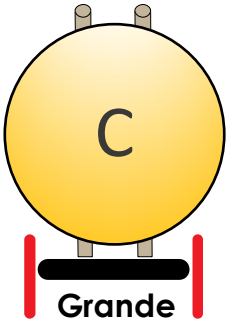

Predice: ¿Qué tan lejos *crees* que llegará? _____

Prueba: ¿Qué tan lejos llegó? _____

©TeacherGeek Inc.
Queda permitida la edición e impresión en escuelas, librerías y organizaciones sin fines de lucro. Los materiales para esta actividad se encuentran disponibles en teachergeek.com. Se requiere la supervisión de un adulto para niños menores de 12 años.

LABORATORIO DE VIENTO

CARRO CON VELA

Nombre: _____

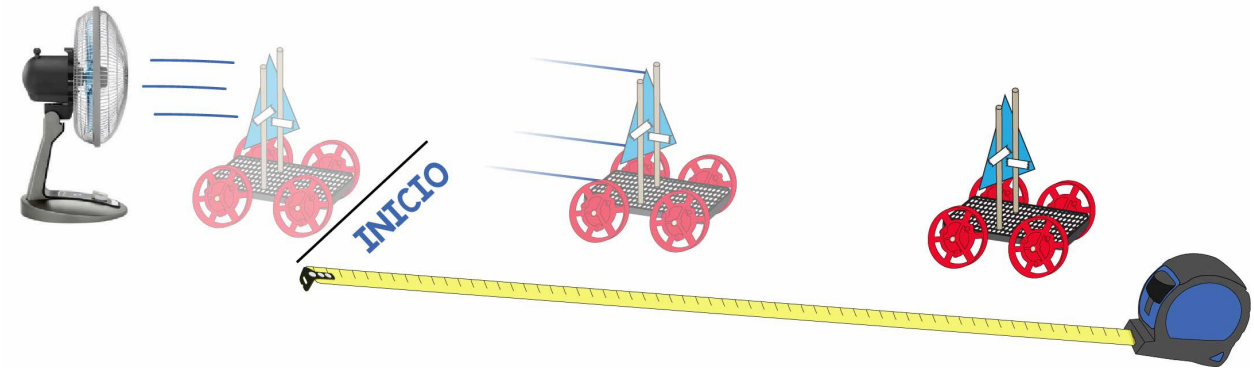

Circula las unidades en las que vas a medir.

Pulgadas (in)	**Pies** (ft)	**Centímetros** (cm)	**Metros** (m)

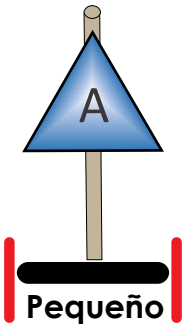

Predice: ¿Qué tan lejos *crees* que llegará? _____

Prueba: ¿Qué tan lejos llegó? _____

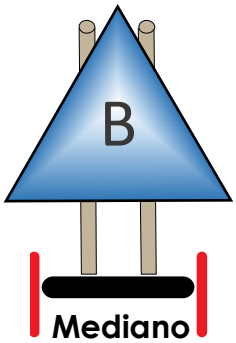

Predice: ¿Qué tan lejos *crees* que llegará? _____

Prueba: ¿Qué tan lejos llegó? _____

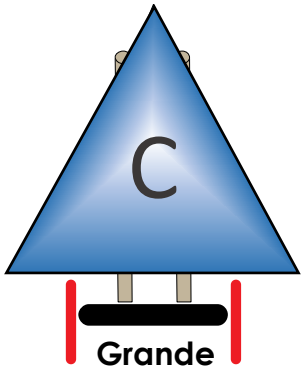

Predice: ¿Qué tan lejos *crees* que llegará? _____

Prueba: ¿Qué tan lejos llegó? _____

©TeacherGeek Inc.
Queda permitida la edición e impresión en escuelas, librerías y organizaciones sin fines de lucro. Los materiales para esta actividad se encuentran disponibles en teachergeek.com. Se requiere la supervisión de un adulto para niños menores de 12 años.

LABORATORIO DE VIENTO

CARRO CON VELA

Nombre: _____

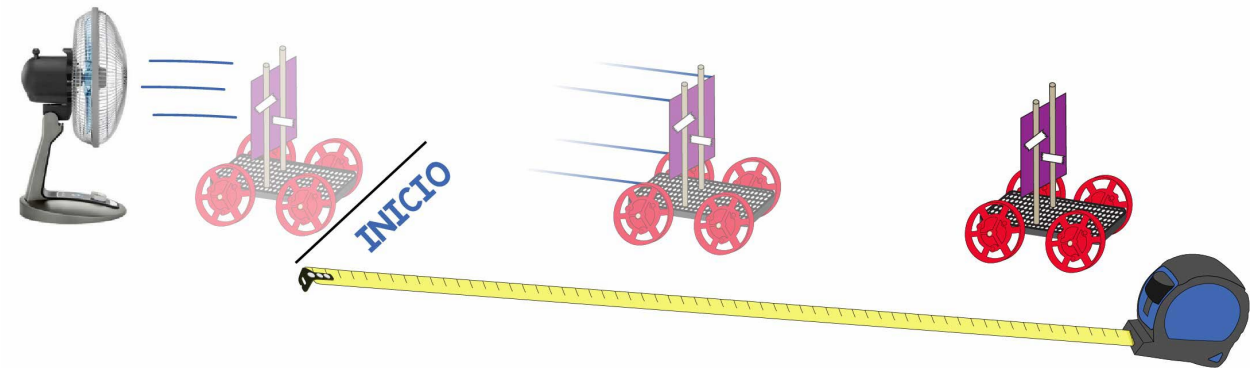

Circula las unidades en las que vas a medir.

Pulgadas (in)	**Pies** (ft)	**Centímetros** (cm)	**Metros** (m)

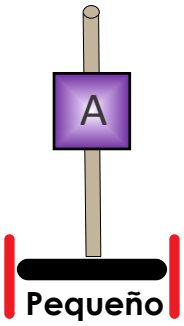

Predice: ¿Qué tan lejos *crees* que llegará? _____

Prueba: ¿Qué tan lejos llegó? _____

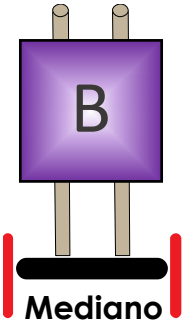

Predice: ¿Qué tan lejos *crees* que llegará? _____

Prueba: ¿Qué tan lejos llegó? _____

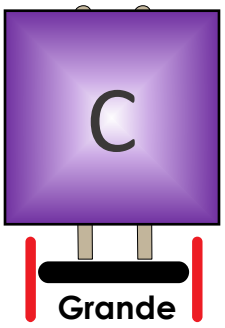

Predice: ¿Qué tan lejos *crees* que llegará? _____

Prueba: ¿Qué tan lejos llegó? _____

©TeacherGeek Inc.
Queda permitida la edición e impresión en escuelas, librerías y organizaciones sin fines de lucro. Los materiales para esta actividad se encuentran disponibles en teachergeek.com. Se requiere la supervisión de un adulto para niños menores de 12 años.

A

Vela Circular Pequeña

Corta las siguientes formas de velas usando cartón, cartulina o papel grueso. Las formas pueden reusarse entre grupos de carros.

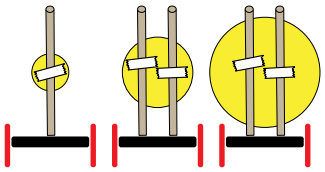

B

Vela Circular Mediana

C

Vela Circular
Grande

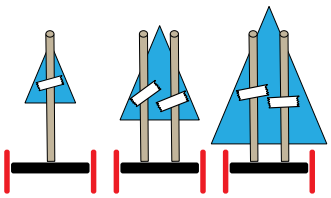

Nota interesante: Las velas grandes tienen el doble de área que las velas medianas. Las velas medianas tienen el doble de área que las velas pequeñas. Si sigues las matemáticas… una vela grande es CUATRO veces mayor que una pequeña.

C

Vela Triangular Grande

A

Vela Triangular Pequeña

A

Vela Cuadrada Pequeña

B

Vela Triangular Mediana

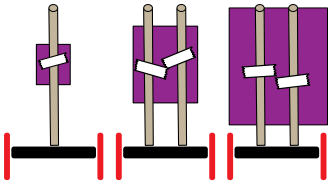

B

Vela Cuadrada Mediana

C

Vela Cuadrada Grande